**1.** На диаграмме показаны результаты контрольной работы по математике в 6«В» классе. По вертикальной оси указано число учеников. Сколько человек писали эту контрольную работу?

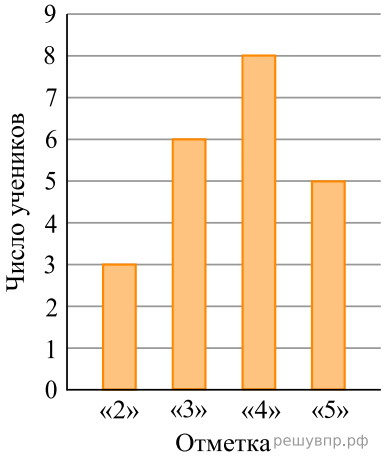


**2.** На диаграмме показаны виды кровли домов жителей поселка. По вертикальной оси указано количество домов. Сколько домов в данном поселке?

**3.** На диаграмме показаны результаты проверочной работы, проведенной в 6 «А» классе. По вертикальной оси указано число учеников. Назовите средний балл по классу за эту проверочную работу.

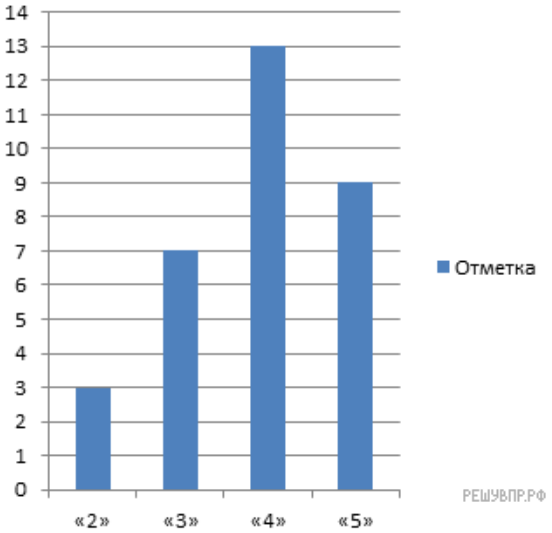

**4.** На диаграмме показаны результаты проверочной работы, проведенной в 6 «Б» классе. По вертикальной оси указано число учеников. Назовите средний балл тех, кто получил за эту работу оценку выше «3».

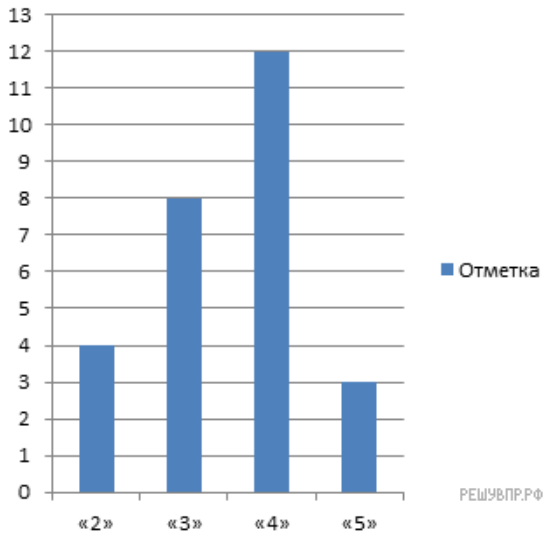


**5.** На диаграмме показаны результаты проверочной работы, проведенной в 6 «В» классе. По вертикальной оси указано число учеников. Назовите средний балл тех, кто получил за эту работу оценку ниже «4».

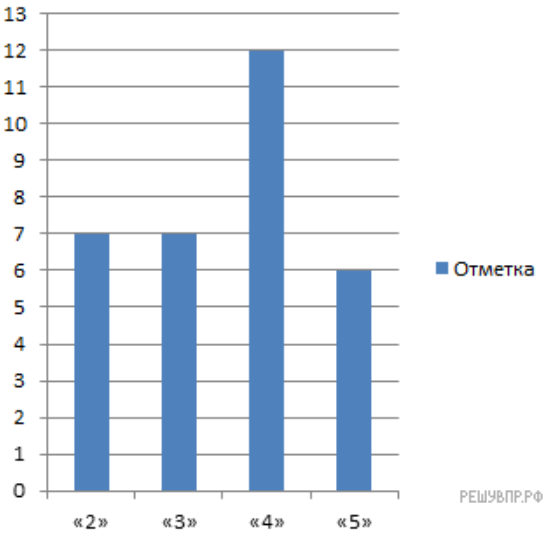


**6.** На диаграмме показаны результаты проверочной работы, проведенной в 6 «В» классе. По вертикальной оси указано число учеников. Сколько человек получило оценку не ниже «4»? *В ответе укажите только число.*

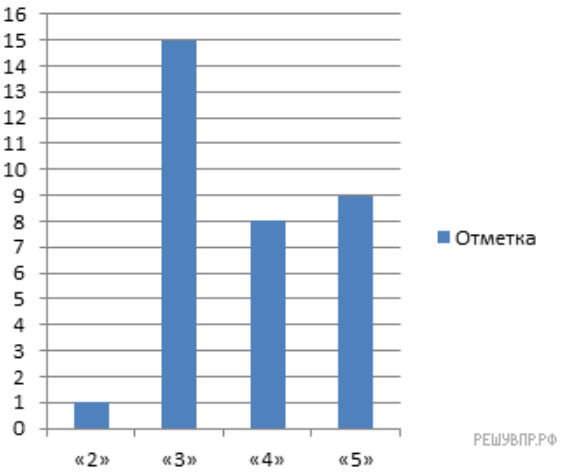

**7.** На диаграмме показаны результаты проверочной работы, проведенной в 6 «Г» классе. По вертикальной оси указано число учеников. Сколько человек получило оценку не выше «3»?

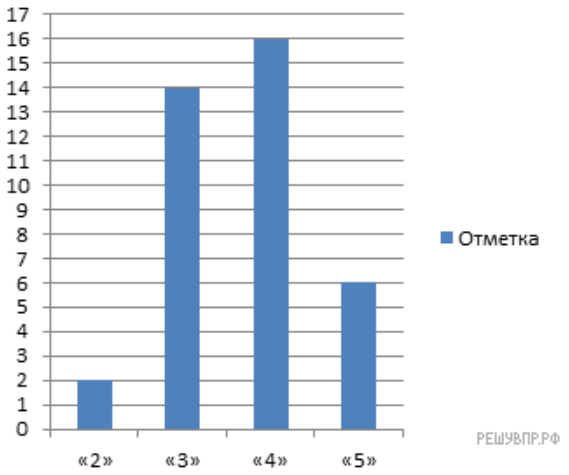


**8.** На диаграмме показаны баллы, которые набрали участники олимпиады по начертательной геометрии. По вертикальной оси указано число участников. Сколько человек принимало участие в олимпиаде?

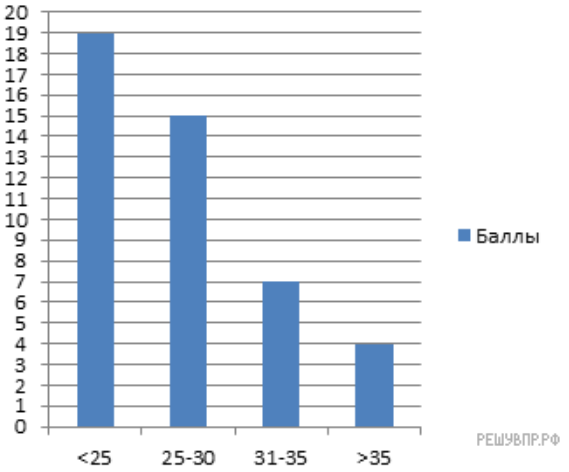


**9.** На диаграмме показаны баллы, которые набрали участники олимпиады по химии. Награждали тех, кто набрал больше 35 баллов. По вертикальной оси указано число участников. Сколько человек получило награды?

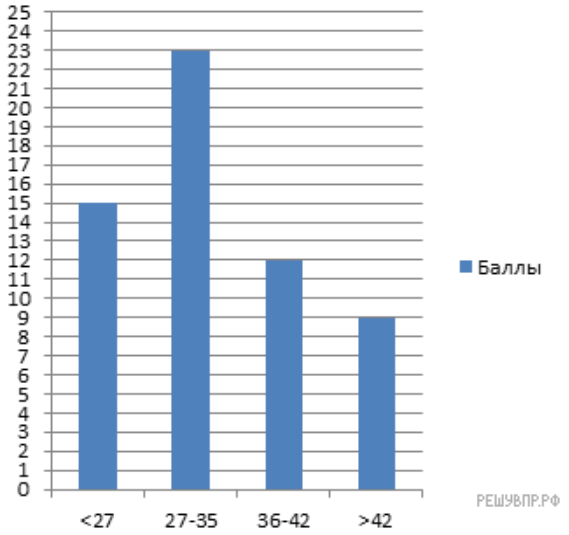

**10.** На диаграмме представлены данные о количестве посетителей шашечного клуба за неделю. По вертикали указано количество посетителей. Сколько человек посетило клуб с четверга по субботу?

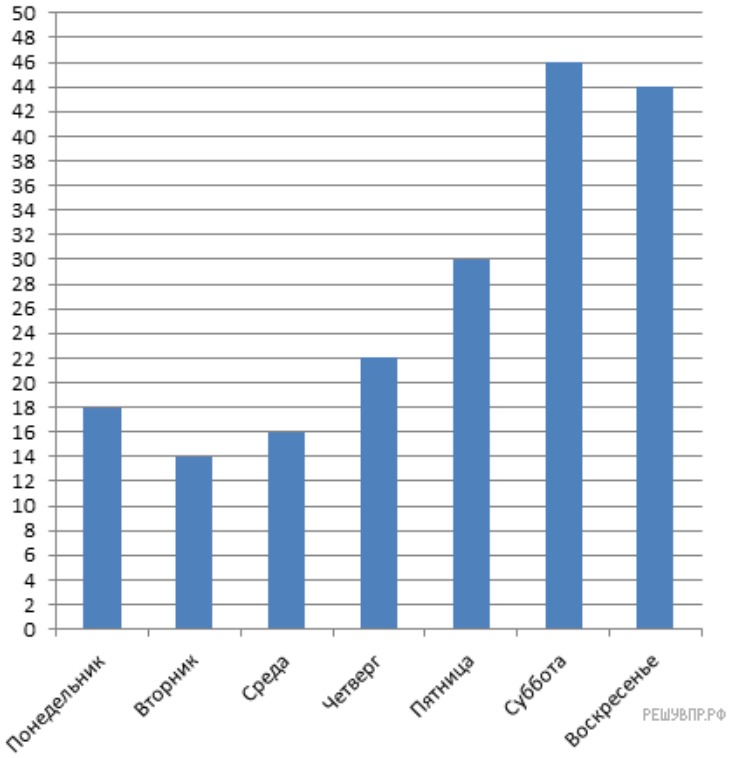


**11.** На диаграмме представлены данные о количестве посетителей шахматного клуба за неделю. По вертикали указано количество посетителей. Сколько человек посетило клуб в будние дни?

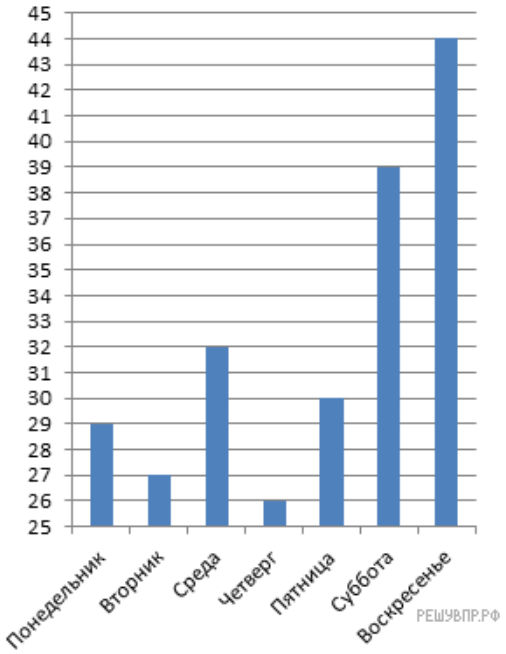

**12.** На диаграмме представлены данные о количестве посетителей литературного клуба за неделю. По вертикали указано количество посетителей. На сколько больше человек посетило клуб в будние дни, чем в выходные?

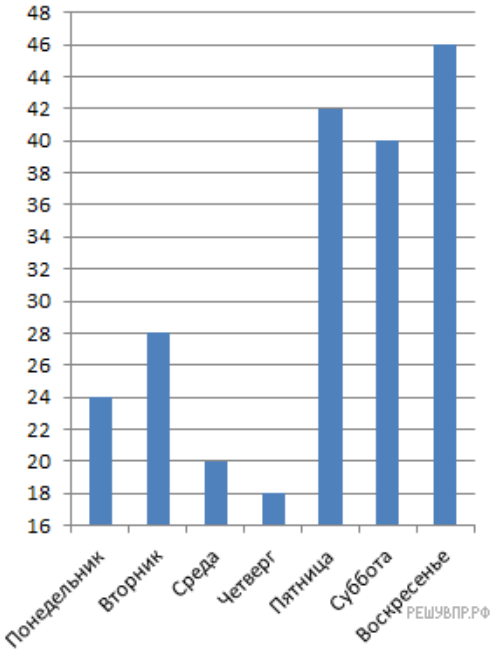


**13.** На диаграмме представлены данные по погоде в Санкт-Петербурге в июле. По вертикальной оси указано количество дней. Сколько июльских дней в Санкт-Петербурге не было осадков?

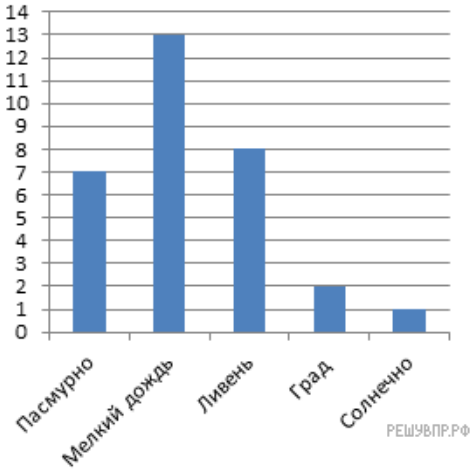


**14.** На диаграмме представлены данные о количестве посетителей литературного клуба за неделю. По вертикали указано количество посетителей. Назовите среднее количество посетителей за один день в выходные дни.

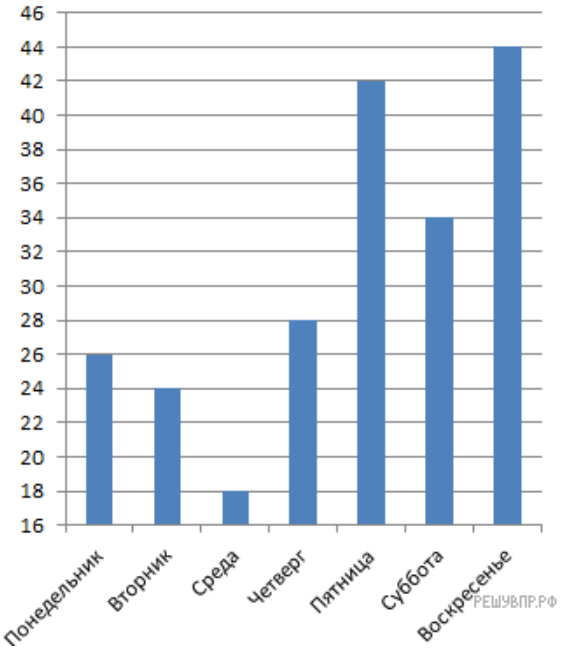

**15.** На диаграмме представлены данные о количестве посетителей литературного клуба за неделю. По вертикали указано количество посетителей. Назовите среднее количество посетителей за один день со вторника по субботу.

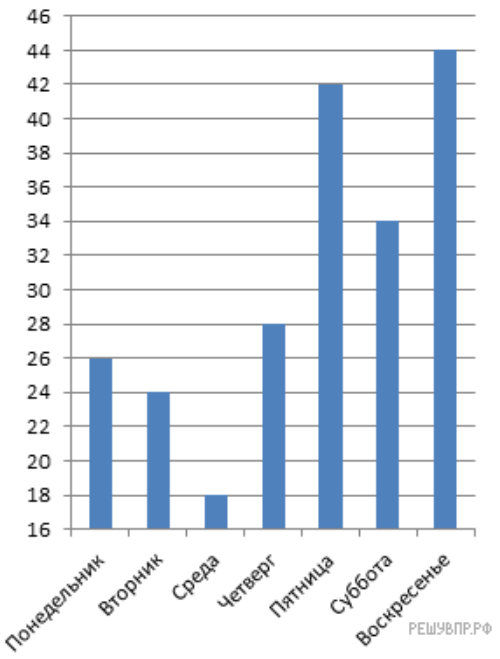


**16.** На диаграмме представлены результаты некоторых ребят, писавших тест по английскому. По вертикальной оси указаны баллы. Назовите средний балл, полученный ребятами.

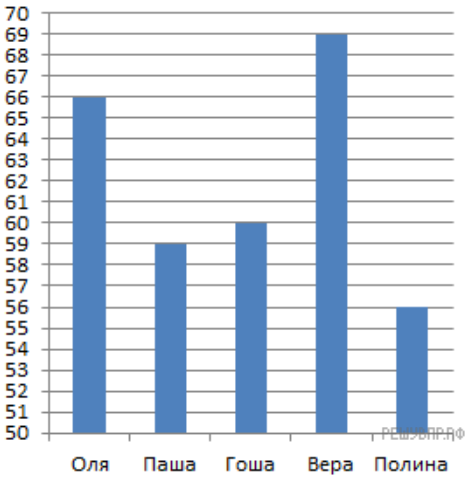


**17.** На диаграмме представлены результаты некоторых ребят, писавших тест по биологии. По вертикальной оси указаны баллы. Назовите средний балл ребят, набравших больше 75 баллов.

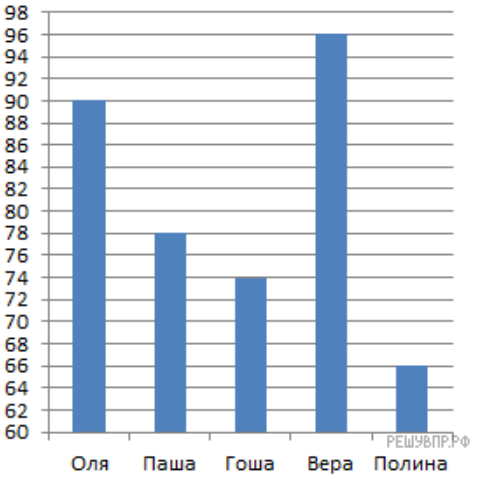

**18.** На диаграмме представлены результаты некоторых ребят, писавших тест по физике. По вертикальной оси указаны баллы. Назовите сумму баллов ребят, набравших менее 75 баллов.

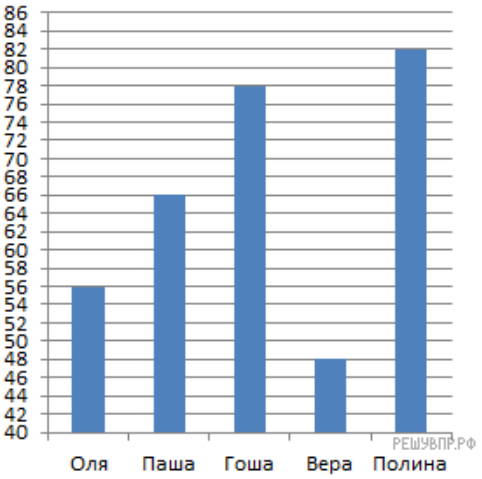


**19.** На диаграмме показано время, которые ребята тратят на дорогу от дома до школы. По вертикали указано время в минутах. Сколько ребят тратят на дорогу от 14 до 24 минут? *В ответе укажите только число.*

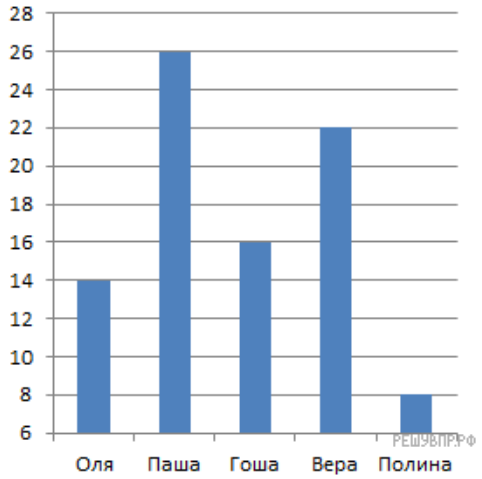


**20.** На диаграмме показано время, которые ребята тратят на дорогу от дома до школы. По вертикали указано время в минутах. Сколько минут в среднем тратят ребята на дорогу от дома до школы?

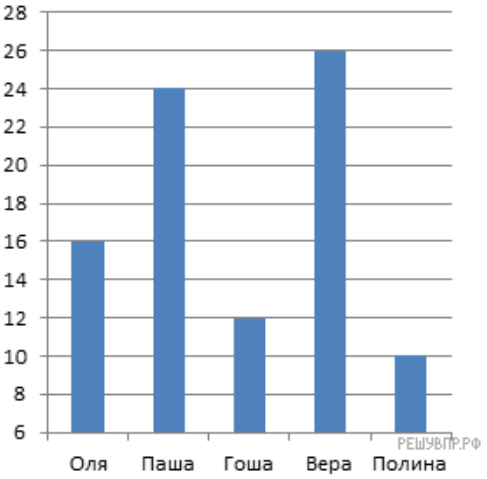

**21.** На диаграмме показано время, которые ребята тратят на дорогу от дома до школы. По вертикали указано время в минутах. Сколько ребят успеет к началу занятий, если звонок прозвенит в 8:55, а они все вышли из своих домов одновременно — в 8:27? *В ответе укажите только число.*

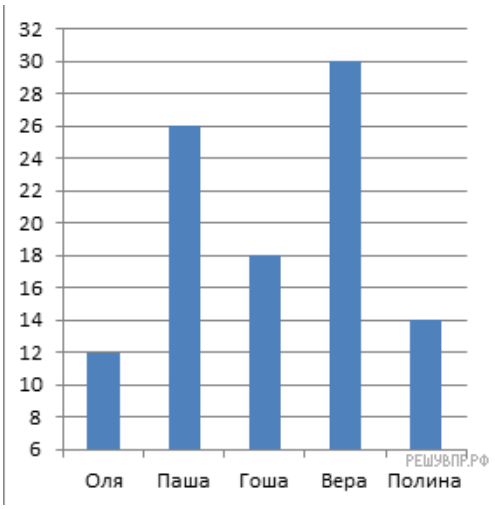


**22.** На диаграмме показано среднее время выполнения домашней работы учеником 6 класса. По вертикали указано время в минутах. Сколько минут он тратит на выполнение домашнего задания по математике и истории вместе?

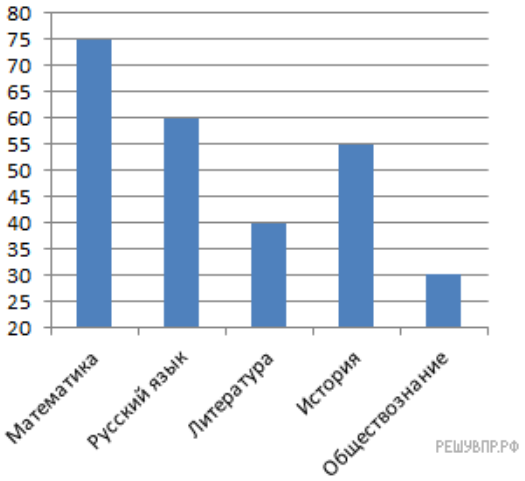


**23.** На диаграмме показано время выполнения домашней работы учеником 6 класса. По вертикали указано время в минутах. На сколько минут больше времени уходит у ученика на выполнение математики и русского вместе, чем на все остальные предметы?

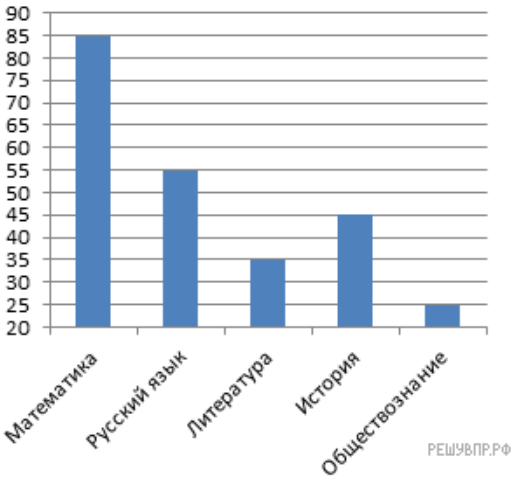

**24.** На диаграмме представлен отчет о тратах семьи за прошедший месяц. По данным диаграммы, определите, сколько рублей потратила семья на развлечения, если известно, что на одежду было истрачено 9750 рублей?

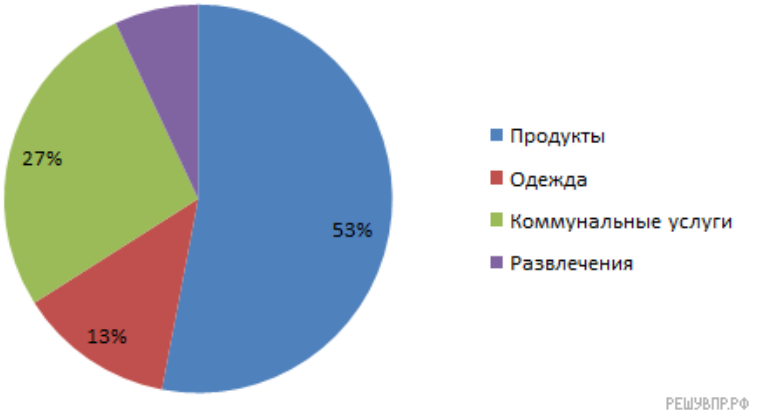


**25.** На диаграмме представлен отчет о тратах семьи за прошедший месяц. По данным диаграммы, определите, сколько рублей потратила семья на одежду, если известно, что на коммунальные услуги было истрачено 7000 рублей?

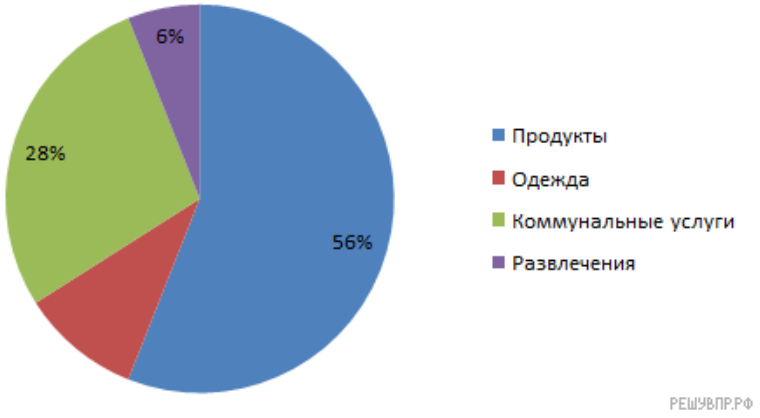


**26.** На диаграмме показаны результаты контрольной работы в 6 «В» классе. Сколько процентов ребят получило отметку выше «3»?

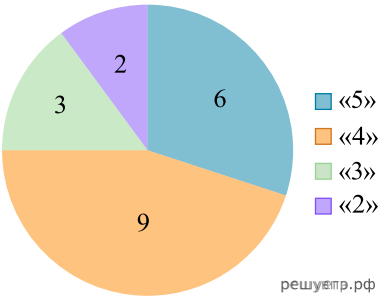

**27.** На диаграмме показаны результаты контрольной работы в 6 «Б» классе. Сколько процентов ребят получило «5»?

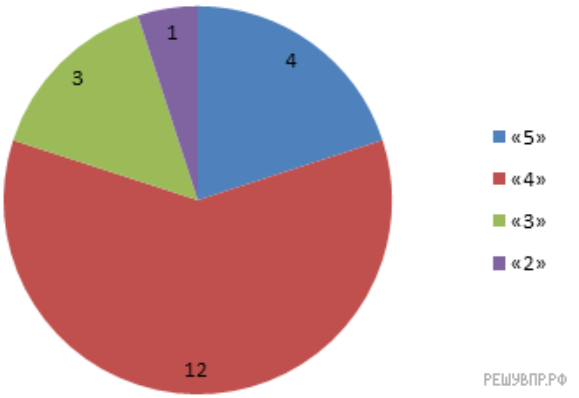


**28.** На диаграмме показаны результаты опроса. Сколько людей затруднилось ответить, если известно, что было опрошено 100 человек?

_____

**29.** На диаграмме показаны результаты опроса. Сколько людей утвердительно ответило на вопрос, если известно, что в опросе принимало участие 200 человек?

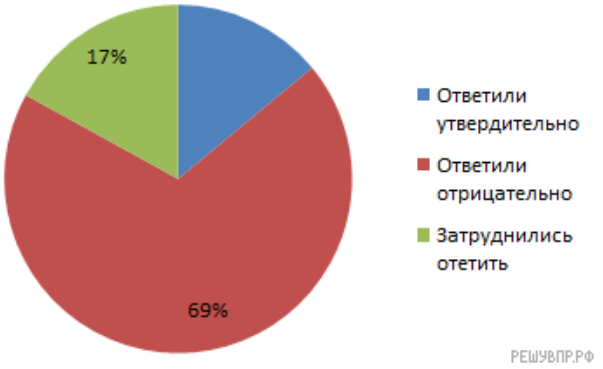

**30.** На диаграмме показаны отчет о тратах семьи за неделю. Определите, сколько было всего потрачено денег, если на развлечения было истрачено 4000 рублей? *Единицы измерения писать не нужно.*

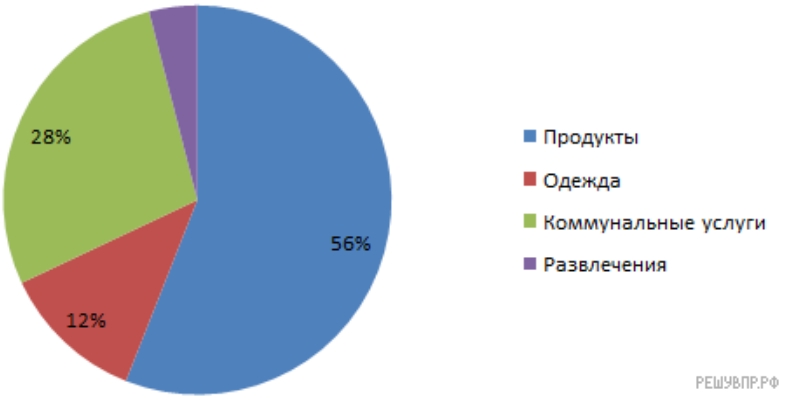


**31.** На диаграмме показаны отчет о тратах семьи за месяц. Определите, сколько было всего потрачено денег, если на продукты было истрачено 23000 рублей?

**32.** На диаграмме показано, сколько посетителей было в краеведческом музее в течение недели. Сколько детей побывало в музее в субботу и воскресенье в сумме?

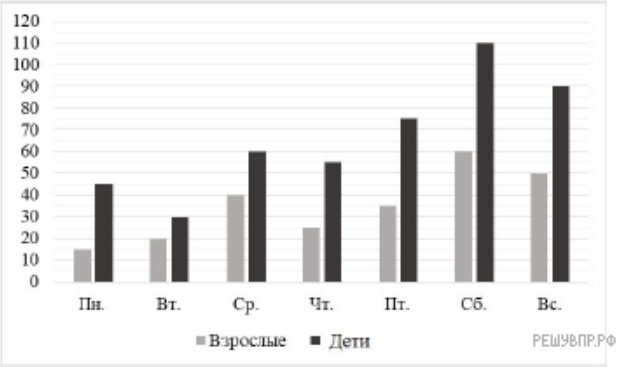
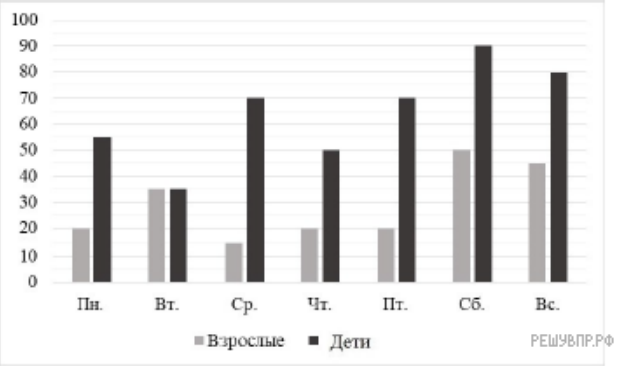
**33.** На диаграмме показано, сколько посетителей было в краеведческом музее в течение недели. Сколько детей побывало в музее в субботу и воскресенье в сумме?