**1.** На рисунке изображён фрагмент карты европейской части России. Расстояние между Москвой и Тверью 170 км. Сколько приблизительно километров между Москвой и Иваново? *В ответ запишите число кратное 10.*

**2.** На рисунке изображён фрагмент карты европейской части России. Расстояние между Белгородом и Липецком 310 км. Сколько приблизительно километров между Москвой и Липецком?

**3.** На рисунке изображён фрагмент карты европейской части России. Расстояние между Москвой и Рязанью 190 км. Сколько приблизительно километров между Рязанью и Воронежем?

**4.** На рисунке изображён фрагмент карты европейской части России. Расстояние между Москвой и Калугой 170 км. Сколько приблизительно километров между Москвой и Ярославлем? *В запишите число кратное 10.*

**5.** На рисунке изображён фрагмент карты европейской части России. Расстояние между Москвой и Костромой 310 км. Сколько приблизительно километров между Москвой и Курском?

**6.** На рисунке изображён фрагмент карты европейской части России. Расстояние между Москвой и Тулой 180 км. Сколько приблизительно километров между Тулой и Брянском? *В запишите число кратное 10.*

**7.** На рисунке изображён фрагмент карты европейской части России. Расстояние между Москвой и Рязанью 190 км. Сколько приблизительно километров между Рязанью и Липецком? *В ответ запишите число кратное 10.*

**8.** На рисунке изображён фрагмент карты европейской части России. Расстояние между Москвой и Владимиром 180 км. Сколько приблизительно километров между Москвой и Тамбовом? *В ответ запишите число кратное 10.*

**9.** На рисунке изображён фрагмент карты европейской части России. Расстояние между Москвой и Тверью

170 км. Сколько приблизительно километров между Москвой и Орлом?

**10.** На рисунке изображён фрагмент карты европейской части России. Расстояние между Москвой и Иваново 250 км. Сколько приблизительно километров между Москвой и Смоленском? *В ответ запишите число кратное 10.*

**11.** На рисунке изображён план комнаты. Ширина окна равна 120 см. Найдите, чему примерно равна длина комнаты (на рисунке обозначена знаком вопроса). Ответ дайте в сантиметрах. *В ответ запишите число кратное 10.*

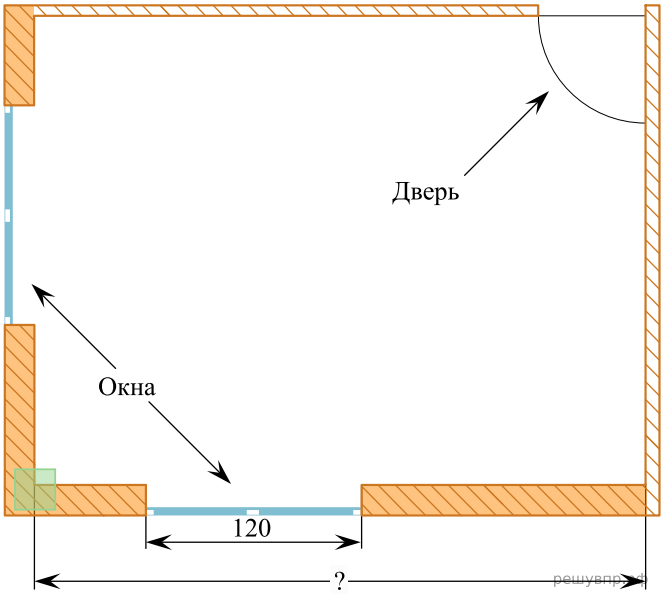


**12.** На рисунке изображён план комнаты. Ширина окна равна 140 см. Найдите, чему примерно равна длина комнаты (на рисунке обозначена знаком вопроса). Ответ дайте в сантиметрах.

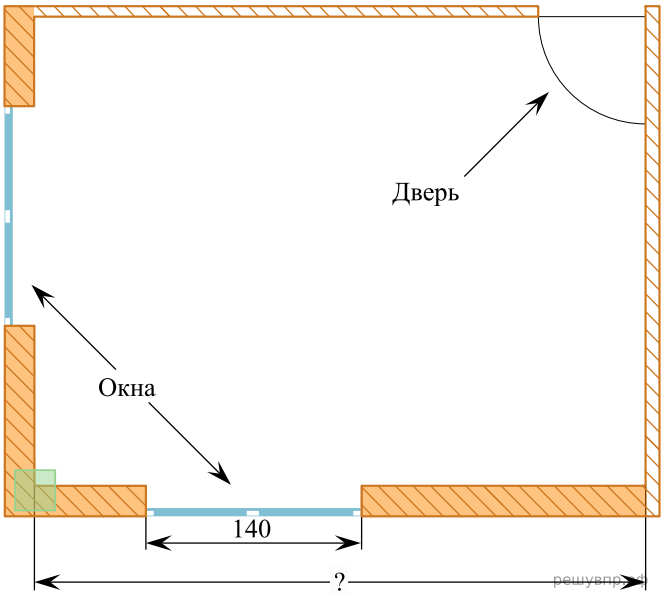

**13.** На рисунке изображён план комнаты. Ширина окна равна 160 см. Найдите, чему примерно равна длина комнаты (на рисунке обозначена знаком вопроса). Ответ дайте в сантиметрах. *В ответ запишите число кратное 10.*

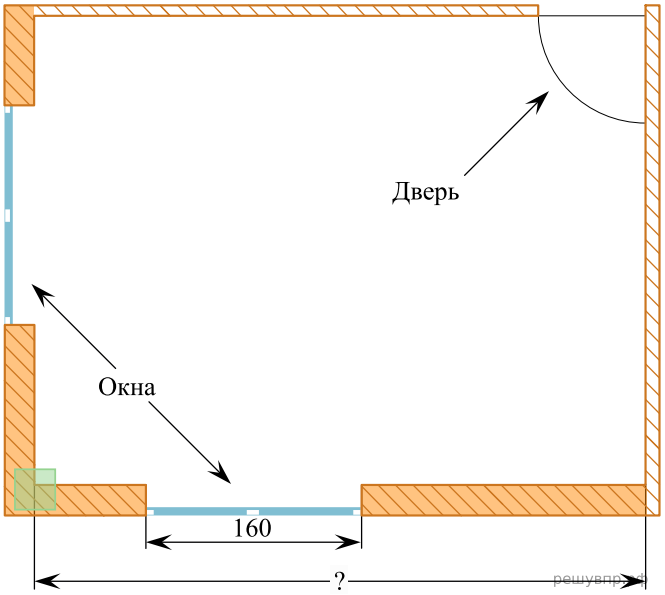


**14.** На рисунке изображён план комнаты. Ширина окна равна 180 см. Найдите, чему примерно равна длина комнаты (на рисунке обозначена знаком вопроса). Ответ дайте в сантиметрах. *В ответ запишите число кратное 10.*

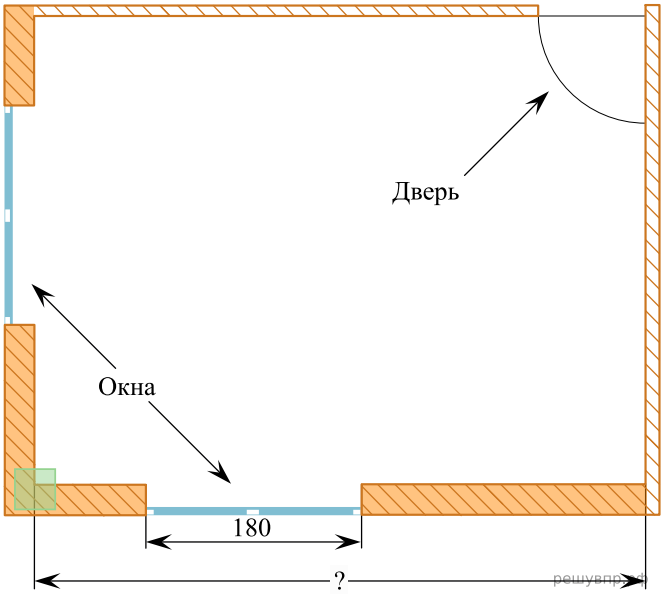

**15.** На рисунке изображён план комнаты. Ширина окна равна 140 см. Найдите, чему примерно равна ширина
комнаты (на рисунке обозначена знаком вопроса). Ответ дайте в сантиметрах. *В ответ запишите число кратное 10.*

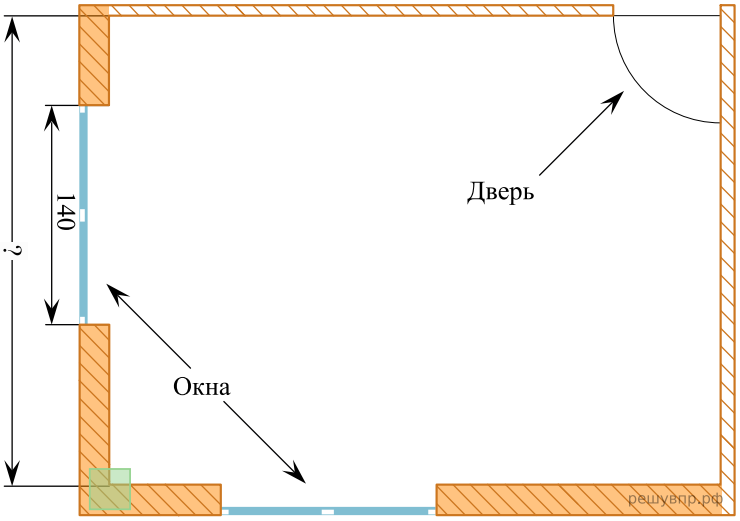


**16.** На рисунке изображён план комнаты. Ширина окна равна 160 см. Найдите, чему примерно равна ширина
комнаты (на рисунке обозначена знаком вопроса). Ответ дайте в сантиметрах.

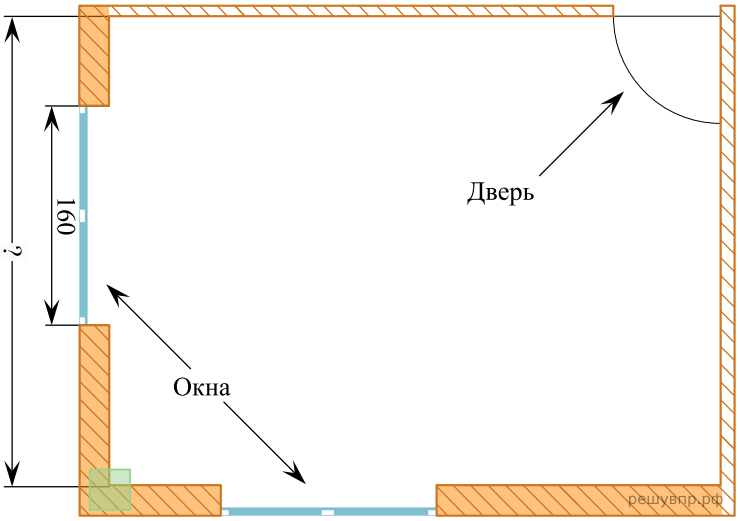


**17.** На рисунке изображён план комнаты. Ширина окна равна 180 см. Найдите, чему примерно равна ширина комнаты (на рисунке обозначена знаком вопроса). Ответ дайте в сантиметрах, *округлите до десятков.*

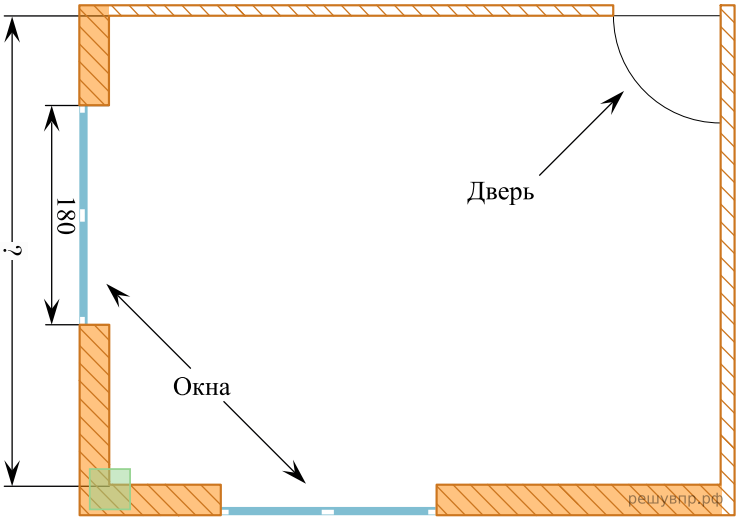

**18.** На рисунке изображён план комнаты. Ширина окна равна 120 см. Найдите, чему примерно равна длина комнаты (на рисунке обозначена знаком вопроса). Ответ дайте в сантиметрах.

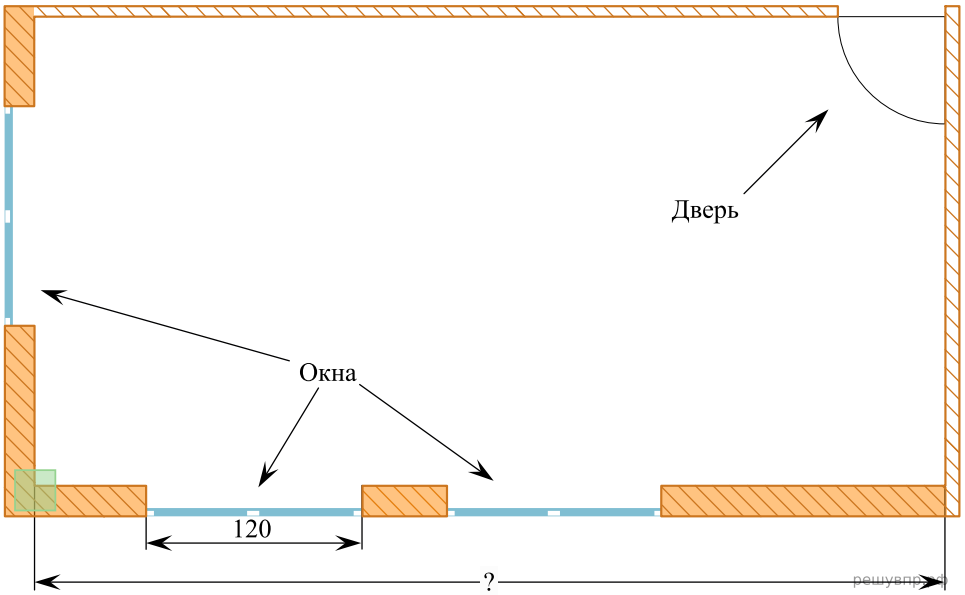


**19.** На рисунке изображён план комнаты. Ширина окна равна 140 см. Найдите, чему примерно равна длина комнаты (на рисунке обозначена знаком вопроса). Ответ дайте в сантиметрах.

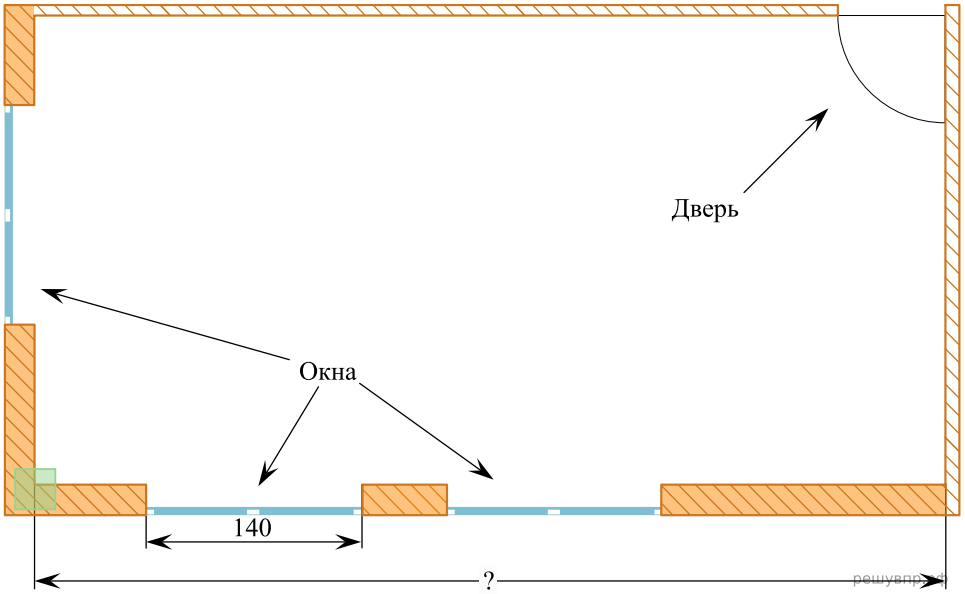
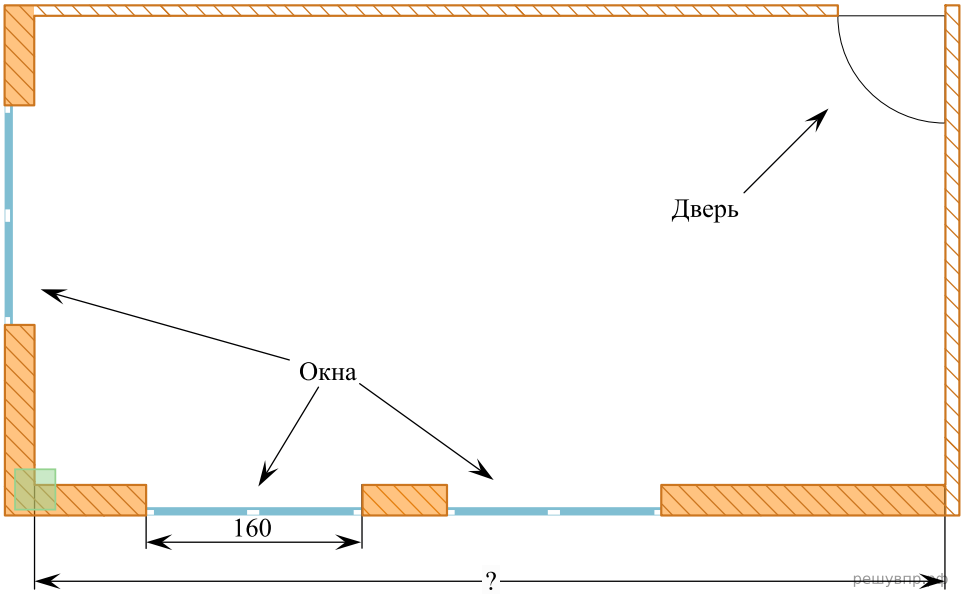
**20.** На рисунке изображён план комнаты. Ширина окна равна 160 см. Найдите, чему примерно равна длина комнаты (на рисунке обозначена знаком вопроса). Ответ дайте в сантиметрах. *Единицы измерения указывать не нужно.*