1. На координатной прямой отмечены точки A, B и C.

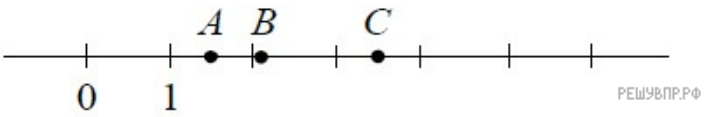

Установите соответствие между точками и их координатами.

ТОЧКИ	КООРДИНАТЫ
A	1) 2,105
B	2) $3\frac{1}{2}$
C	3) $\frac{2}{3}$
	4) $\frac{3}{2}$
	5) 2,9

В таблице под каждой буквой укажите номер соответствующей координаты *без пробелов, запятых или других дополнительных символов*.
Ответ:

A	B	C

2. На координатной прямой отмечены точки A, B и C.

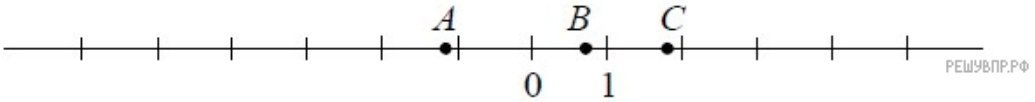

Установите соответствие между точками и их координатами.

ТОЧКИ	КООРДИНАТЫ
A	1) $\frac{5}{7}$
B	2) $-\frac{9}{7}$
C	3) $1,8$
	4) $-5,3$
	5) $1\frac{1}{7}$

В таблице под каждой буквой укажите номер соответствующей координаты *без пробелов, запятых или других дополнительных символов*.
Ответ:

A	B	C

3. На координатной прямой отмечены точки A, B и C.

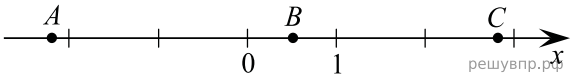

Установите соответствие между точками и их координатами.

ТОЧКИ	КООРДИНАТЫ
A	1) $\frac{1}{2}$
B	2) $2,6$
C	3) $2,85$
	4) $-2,2$
	5) $-\frac{12}{5}$

В таблице под каждой буквой укажите номер соответствующей координаты *без пробелов, запятых или других дополнительных символов*.
Ответ:

A	*B*	*C*

4. На координатной прямой отмечены точки A, B и C.

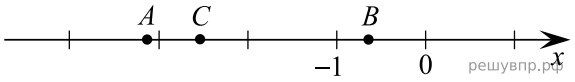

Установите соответствие между точками и их координатами.

ТОЧКИ	КООРДИНАТЫ
A	1) $-\frac{13}{5}$
B	2) $-\frac{5}{13}$
C	3) $-3,13$
	4) $-\frac{2}{3}$
	5) $\frac{13}{5}$

В таблице под каждой буквой укажите номер соответствующей координаты *без пробелов, запятых или других дополнительных символов*.
Ответ:

A	*B*	*C*

5. На координатной прямой отмечены точки A, B и C.

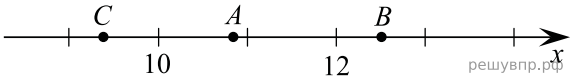

Установите соответствие между точками и их координатами.

ТОЧКИ	КООРДИНАТЫ
A	1) $9,37$
B	2) $\frac{44}{5}$
C	3) $\frac{27}{2}$
	4) $\frac{25}{2}$
	5) $10,87$

В таблице под каждой буквой укажите номер соответствующей координаты *без пробелов, запятых или других дополнительных символов*.
Ответ:

A	*B*	*C*

6. На координатной прямой отмечены точки A, B и C.

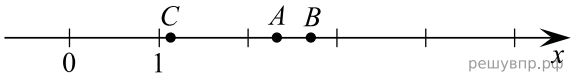

Установите соответствие между точками и их координатами.

ТОЧКИ	КООРДИНАТЫ
A	1) $\frac{5}{3}$
B	2) $\frac{8}{3}$
C	3) $\frac{7}{3}$
	4) $2,5$
	5) $1,12$

В таблице под каждой буквой укажите номер соответствующей координаты *без пробелов, запятых или других дополнительных символов*.
Ответ:

A	*B*	*C*

7. На координатной прямой отмечены точки A, B и C.

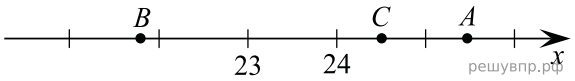

Установите соответствие между точками и их координатами.

ТОЧКИ	КООРДИНАТЫ
A	1) $\frac{49}{2}$
B	2) $25,7$
C	3) $25,45$
	4) $\frac{65}{3}$
	5) $\frac{109}{5}$

В таблице под каждой буквой укажите номер соответствующей координаты *без пробелов, запятых или других дополнительных символов*.
Ответ:

A	*B*	*C*

8. На координатной прямой отмечены точки *A*, *B* и *C*.

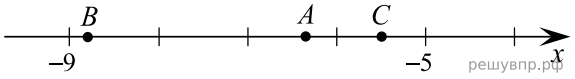

Установите соответствие между точками и их координатами.

ТОЧКИ	КООРДИНАТЫ
A	1) $-\frac{11}{2}$
B	2) $-\frac{13}{2}$
C	3) $-6,35$
	4) $-\frac{44}{5}$
	5) $-8,2$

В таблице под каждой буквой укажите номер соответствующей координаты *без пробелов, запятых или других дополнительных символов*.
Ответ:

A	*B*	*C*

9. На координатной прямой отмечены точки A, B и C.

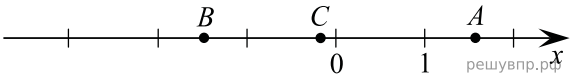

Установите соответствие между точками и их координатами.

ТОЧКИ	КООРДИНАТЫ
A	1) $\frac{8}{5}$
B	2) $-\frac{8}{5}$
C	3) $-0,2$
	4) $-\frac{3}{2}$
	5) $-\frac{2}{3}$

В таблице под каждой буквой укажите номер соответствующей координаты *без пробелов, запятых или других дополнительных символов*.

Ответ:

A	*B*	*C*

10. На координатной прямой отмечены точки A, B и C.

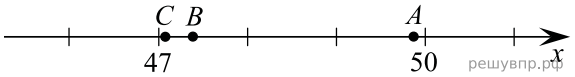

Установите соответствие между точками и их координатами.

ТОЧКИ	КООРДИНАТЫ
A	1) $47,33$
B	2) $47,09$
C	3) $\frac{201}{4}$
	4) $\frac{99}{2}$
	5) $49,85$

В таблице под каждой буквой укажите номер соответствующей координаты *без пробелов, запятых или других дополнительных символов*.

Ответ:

A	*B*	*C*

11. На координатной прямой отмечены точки A, B и C.

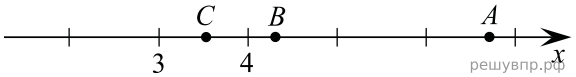

Установите соответствие между точками и их координатами.

ТОЧКИ	КООРДИНАТЫ
A	1) $\frac{2}{7}$
B	2) $\frac{7}{2}$
C	3) $3,8$
	4) $4,27$
	5) $6,83$

В таблице под каждой буквой укажите номер соответствующей координаты *без пробелов, запятых или других дополнительных символов*.
Ответ:

A	*B*	*C*

12. На координатной прямой отмечены точки A, B и C.

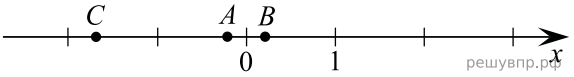

Установите соответствие между точками и их координатами.

ТОЧКИ	КООРДИНАТЫ
A	1) $\frac{1}{5}$
B	2) $-0,2$
C	3) $-1,2$
	4) $-1,79$
	5) $\frac{9}{2}$

В таблице под каждой буквой укажите номер соответствующей координаты *без пробелов, запятых или других дополнительных символов*.
Ответ:

A	*B*	*C*

13. На координатной прямой отмечены точки A, B и C.

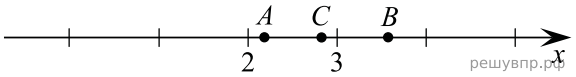

Установите соответствие между точками и их координатами.

ТОЧКИ	КООРДИНАТЫ
A	1) $\frac{11}{5}$
B	2) $\frac{13}{5}$
C	3) $\frac{14}{5}$
	4) $3,6$
	5) $3,5$

В таблице под каждой буквой укажите номер соответствующей координаты *без пробелов, запятых или других дополнительных символов*.
Ответ:

A	*B*	*C*

14. На координатной прямой отмечены точки A, B и C.

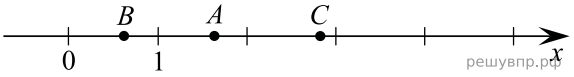

Установите соответствие между точками и их координатами.

ТОЧКИ	КООРДИНАТЫ
A	1) $\frac{2}{3}$
B	2) $\frac{5}{3}$
C	3) $\frac{7}{6}$
	4) $2,8$
	5) $3,1$

В таблице под каждой буквой укажите номер соответствующей координаты *без пробелов, запятых или других дополнительных символов*.
Ответ:

A	*B*	*C*

15. На координатной прямой отмечены точки A, B и C.

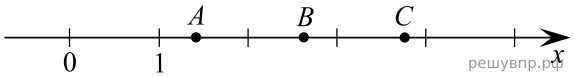

Установите соответствие между точками и их координатами.

ТОЧКИ	КООРДИНАТЫ
A	1) $1,35$
B	2) $\frac{7}{9}$
C	3) $2,66$
	4) $3,8$
	5) $3\frac{9}{10}$

В таблице под каждой буквой укажите номер соответствующей координаты *без пробелов, запятых или других дополнительных символов*.
Ответ:

A	*B*	*C*

16. На координатной прямой отмечены точки A, B и C.

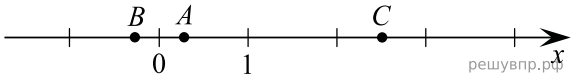

Установите соответствие между точками и их координатами.

ТОЧКИ	КООРДИНАТЫ
A	1) $-\frac{1}{4}$
B	2) $0,25$
C	3) $-\frac{2}{3}$
	4) $2,5$
	5) $2\frac{1}{4}$

В таблице под каждой буквой укажите номер соответствующей координаты *без пробелов, запятых или других дополнительных символов*.
Ответ:

A	*B*	*C*

17. На координатной прямой отмечены точки A, B и C.

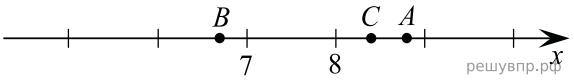

Установите соответствие между точками и их координатами.

ТОЧКИ	КООРДИНАТЫ
A	1) $6,79$
B	2) $8\frac{2}{5}$
C	3) $-8,4$
	4) $8,85$
	5) $9,8$

В таблице под каждой буквой укажите номер соответствующей координаты *без пробелов, запятых или других дополнительных символов*.
Ответ:

A	*B*	*C*

18. На координатной прямой отмечены точки A, B и C.

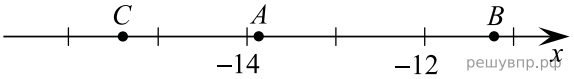

Установите соответствие между точками и их координатами.

ТОЧКИ	КООРДИНАТЫ
A	1) $-\frac{139}{10}$
B	2) $14\frac{1}{10}$
C	3) $-15,4$
	4) $15\frac{2}{5}$
	5) $-11,2$

В таблице под каждой буквой укажите номер соответствующей координаты *без пробелов, запятых или других дополнительных символов*.
Ответ:

A	*B*	*C*

19. На координатной прямой отмечены точки A, B и C.

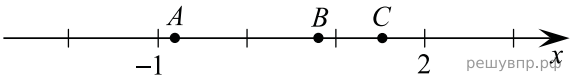

Установите соответствие между точками и их координатами.

ТОЧКИ	КООРДИНАТЫ
A	1) $\frac{5}{4}$
B	2) $\frac{4}{5}$
C	3) $-0,85$
	4) $0,5$
	5) $1\frac{1}{2}$

В таблице под каждой буквой укажите номер соответствующей координаты *без пробелов, запятых или других дополнительных символов*.
Ответ:

A	*B*	*C*

20. На координатной прямой отмечены точки A, B и C.

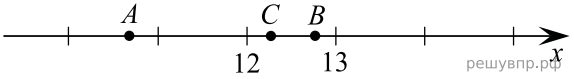

Установите соответствие между точками и их координатами.

ТОЧКИ	КООРДИНАТЫ
A	1) $\frac{49}{4}$
B	2) $12\frac{3}{4}$
C	3) $\frac{25}{2}$
	4) $13\frac{1}{4}$
	5) $10,71$

В таблице под каждой буквой укажите номер соответствующей координаты *без пробелов, запятых или других дополнительных символов*.
Ответ:

A	*B*	*C*

21. На координатной прямой отмечены точки A, B и C.

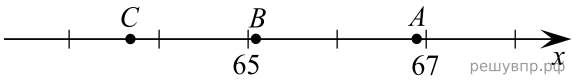

Установите соответствие между точками и их координатами.

ТОЧКИ	КООРДИНАТЫ
A	1) $65,102$
B	2) $66,91$
C	3) $66,71$
	4) $\frac{191}{3}$
	5) $6,53$

В таблице под каждой буквой укажите номер соответствующей координаты *без пробелов, запятых или других дополнительных символов*.
Ответ:

A	B	C

22. На координатной прямой отмечены точки A, B и C.

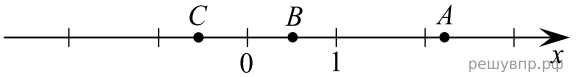

Установите соответствие между точками и их координатами.

ТОЧКИ	КООРДИНАТЫ
A	1) $-0,6$
B	2) $\frac{1}{2}$
C	3) $\frac{3}{2}$
	4) $2,17$
	5) $2\frac{1}{3}$

В таблице под каждой буквой укажите номер соответствующей координаты *без пробелов, запятых или других дополнительных символов*.
Ответ:

A	B	C

23. На координатной прямой отмечены точки A, B и C.

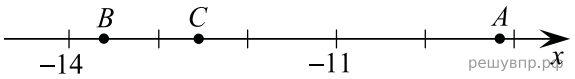

Установите соответствие между точками и их координатами.

ТОЧКИ	КООРДИНАТЫ
A	1) $-13\frac{2}{3}$
B	2) $-\frac{38}{3}$
C	3) $13,66$
	4) $12,66$
	5) $-9,2$

В таблице под каждой буквой укажите номер соответствующей координаты *без пробелов, запятых или других дополнительных символов*.
Ответ:

A	*B*	*C*

24. На координатной прямой отмечены точки A, B и C.

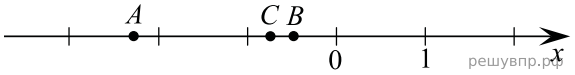

Установите соответствие между точками и их координатами.

ТОЧКИ	КООРДИНАТЫ
A	1) $\frac{1}{2}$
B	2) $-0,5$
C	3) $-0,755$
	4) $\frac{3}{4}$
	5) $-2,27$

В таблице под каждой буквой укажите номер соответствующей координаты *без пробелов, запятых или других дополнительных символов*.
Ответ:

A	*B*	*C*

25. На координатной прямой отмечены точки A, B и C.

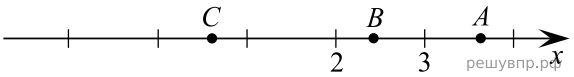

Установите соответствие между точками и их координатами.

ТОЧКИ	КООРДИНАТЫ
A	1) $0,6$
B	2) $\frac{9}{10}$
C	3) $2\frac{2}{5}$
	4) $\frac{13}{5}$
	5) $3,66$

В таблице под каждой буквой укажите номер соответствующей координаты *без пробелов, запятых или других дополнительных символов*.

Ответ:

A	*B*	*C*

26. На координатной прямой отмечены точки A, B и C.

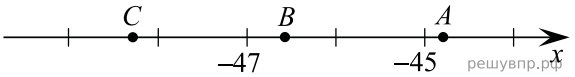

Установите соответствие между точками и их координатами.

ТОЧКИ	КООРДИНАТЫ
A	1) $-44,8$
B	2) $-45\frac{1}{5}$
C	3) $-46,67$
	4) $-48,3$
	5) $-\frac{97}{2}$

В таблице под каждой буквой укажите номер соответствующей координаты *без пробелов, запятых или других дополнительных символов*.

Ответ:

A	*B*	*C*

27. На координатной прямой отмечены точки A, B и C.

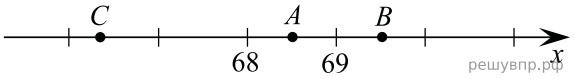

Установите соответствие между точками и их координатами.

ТОЧКИ	КООРДИНАТЫ
A	1) $-\frac{137}{2}$
B	2) $68,4$
C	3) $68,5$
	4) $66\frac{1}{3}$
	5) $\frac{139}{2}$

В таблице под каждой буквой укажите номер соответствующей координаты *без пробелов, запятых или других дополнительных символов*.
Ответ:

A	*B*	*C*

28. На координатной прямой отмечены точки A, B и C.

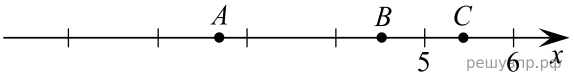

Установите соответствие между точками и их координатами.

ТОЧКИ	КООРДИНАТЫ
A	1) $\frac{9}{2}$
B	2) $\frac{2}{9}$
C	3) $5\frac{2}{5}$
	4) $5,6$
	5) $\frac{8}{3}$

В таблице под каждой буквой укажите номер соответствующей координаты *без пробелов, запятых или других дополнительных символов*.
Ответ:

A	*B*	*C*

29. На координатной прямой отмечены точки A, B и C.

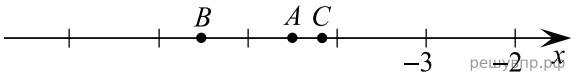

Установите соответствие между точками и их координатами.

ТОЧКИ	КООРДИНАТЫ
A	1) $-4\frac{1}{5}$
B	2) $-\frac{22}{5}$
C	3) $-4,5$
	4) $-5,6$
	5) $-\frac{29}{5}$

В таблице под каждой буквой укажите номер соответствующей координаты *без пробелов, запятых или других дополнительных символов*.
Ответ:

A	*B*	*C*

30. На координатной прямой отмечены точки A, B и C.

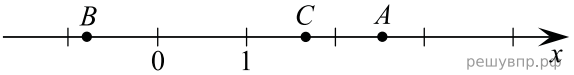

Установите соответствие между точками и их координатами.

ТОЧКИ	КООРДИНАТЫ
A	1) $1,7$
B	2) $2\frac{1}{2}$
C	3) $\frac{2}{5}$
	4) $-0,61$
	5) $-\frac{8}{10}$

В таблице под каждой буквой укажите номер соответствующей координаты *без пробелов, запятых или других дополнительных символов*.
Ответ:

A	*B*	*C*

31. На координатной прямой отмечены точки A, B и C.

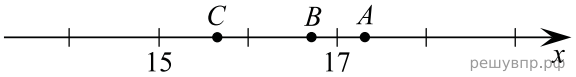

Установите соответствие между точками и их координатами.

ТОЧКИ	КООРДИНАТЫ
A	1) $17\frac{1}{3}$
B	2) $\frac{50}{3}$
C	3) $18\frac{1}{3}$
	4) $15,6$
	5) $15,4$

В таблице под каждой буквой укажите номер соответствующей координаты *без пробелов, запятых или других дополнительных символов*.
Ответ:

A	*B*	*C*

32. На координатной прямой отмечены точки A, B и C.

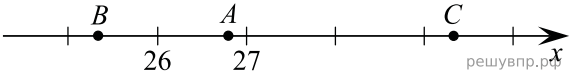

Установите соответствие между точками и их координатами.

ТОЧКИ	КООРДИНАТЫ
A	1) $25,33$
B	2) $26,8$
C	3) $\frac{133}{5}$
	4) $29\frac{1}{3}$
	5) $29,1$

В таблице под каждой буквой укажите номер соответствующей координаты *без пробелов, запятых или других дополнительных символов*.
Ответ:

A	*B*	*C*

33. На координатной прямой отмечены точки *A*, *B* и *C*.

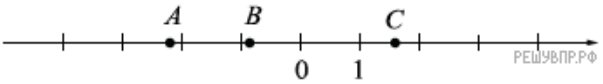

Установите соответствие между точками и их координатами.

ТОЧКИ	КООРДИНАТЫ
A	1) 2,5
B	2) $-0,914$
C	3) $\frac{8}{5}$
	4) $\frac{4}{9}$
	5) −2,13

В таблице под каждой буквой укажите номер соответствующей координаты *без пробелов, запятых или других дополнительных символов*.
Ответ:

A	*B*	*C*

34. На координатной прямой отмечены точки *A*, *B* и *C*.

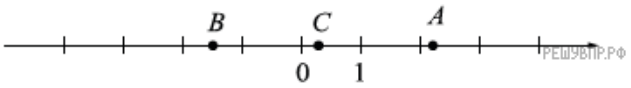

Установите соответствие между точками и их координатами.

ТОЧКИ	КООРДИНАТЫ
A	1) $\frac{3}{11}$
B	2) $-\frac{1}{2}$
C	3) −1,49
	4) $2\frac{1}{7}$
	5) 2,9

В таблице под каждой буквой укажите номер соответствующей координаты *без пробелов, запятых или других дополнительных символов*.
Ответ:

A	*B*	*C*

35. На координатной прямой отмечены точки A, B и C.

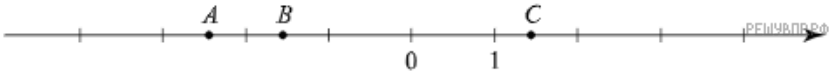

Установите соответствие между точками и их координатами.

ТОЧКИ	КООРДИНАТЫ
A	1) $2\frac{4}{9}$
B	2) $\frac{5}{9}$
C	3) $-1\frac{5}{9}$
	4) $1\frac{4}{9}$
	5) $-2\frac{4}{9}$

В таблице под каждой буквой укажите номер соответствующей координаты *без пробелов, запятых или других дополнительных символов*.

Ответ:

A	B	C

36. На координатной прямой отмечены точки A, B и C.

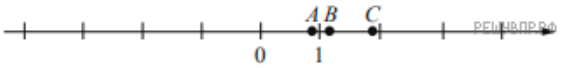

Установите соответствие между точками и их координатами.

ТОЧКИ	КООРДИНАТЫ
A	1) $\frac{10}{9}$
B	2) $\frac{4}{9}$
C	3) $\frac{9}{10}$
	4) $\frac{17}{8}$
	5) $\frac{17}{9}$

В таблице под каждой буквой укажите номер соответствующей координаты *без пробелов, запятых или других дополнительных символов*.

Ответ:

A	B	C